mathématiques : grandeurs et mesures...mathématiques : grandeurs et mesures...mathématiques : grandeurs et mesures...mathématiques : grandeurs et mesures...mathématiques

LES ANGLES

↳ *Compétence 1 : Je sais comparer des angles d'une figure avec un gabarit.*
↳ *Consigne 1 : Tu mets **<**, **>** ou **=** entre les 2 angles de chaque figure.*

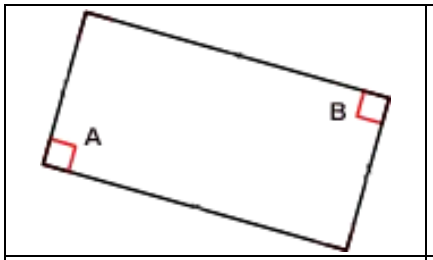	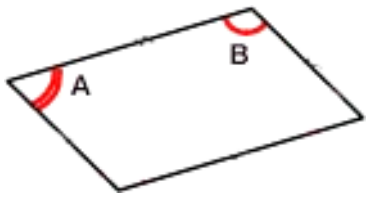	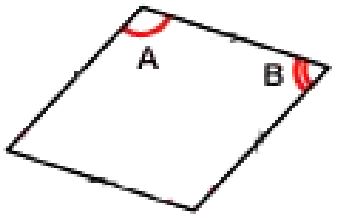
A . B	A . B	A . B

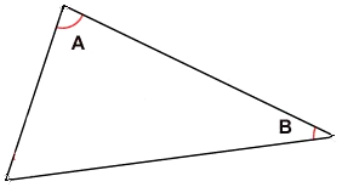	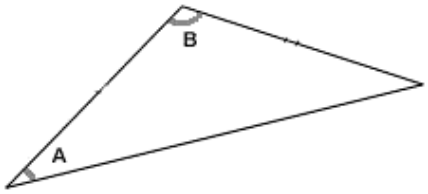
A . B	A . B

~~~~~~~~~~~~~~~~~~~~~~

↳ *Compétence 2 : Je sais vérifier qu'un angle est droit, obtus, aigu avec l'équerre.*
↳ *Consigne 2 : Dis pour chaque angle s'il est **aigu, obtus** ou **droit.***

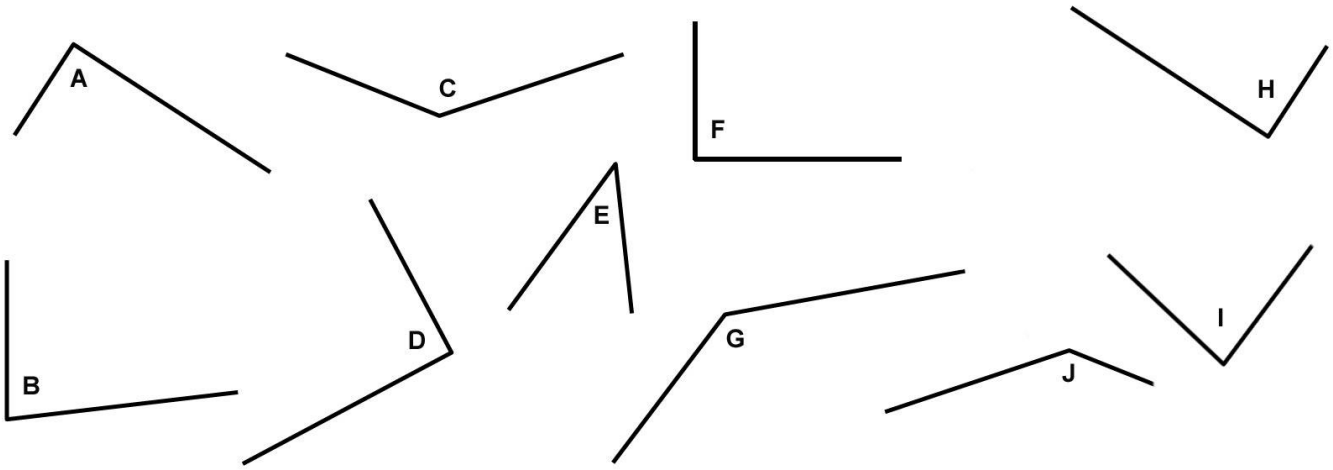

	A	B	C	D	E	F	G	H	I	J
aigu										
droit										
obtus										

Prénom : Date :
~~~~~~~~~~~~~~~~~~~~~~

mathématiques : grandeurs et mesures...mathématiques : grandeurs et mesures...mathématiques : grandeurs et mesures...mathématiques : grandeurs et mesures...mathématiques

↳ *Compétence 3 : Je sais classer des angles.*
↳ *Consigne 3 : Range ces angles du plus obtus au plus aigu.*

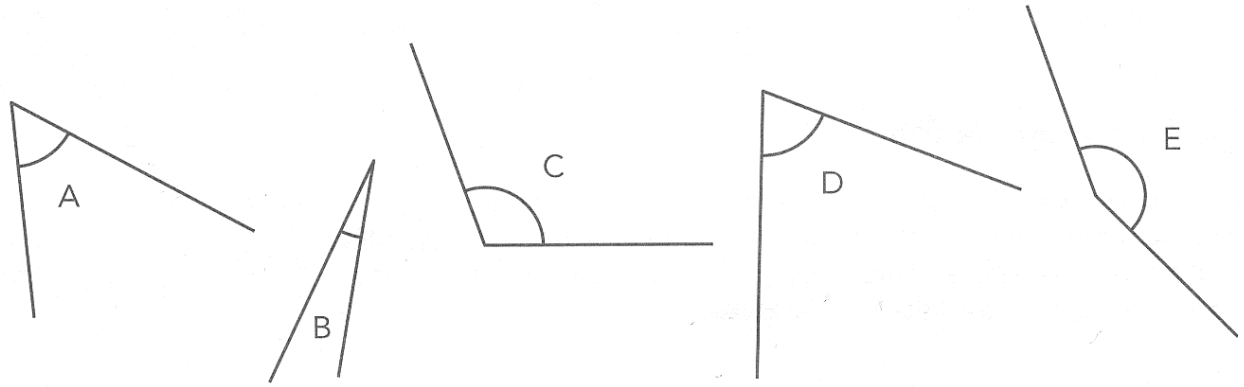

Ordre : . . . . . .

GRANDEURS ET MESURES : les angles

	NA	PA	A	D
❶ Je sais comparer des angles d'une figure avec un gabarit.				
❷ Je sais vérifier qu'un angle est droit, obtus, aigu.				
❸ Je sais classer des angles.				

CORRECTION

↳ *Compétence 1 : Je sais comparer des angles d'une figure avec un gabarit.*
↳ *Consigne 1 : Tu mets **<**, **>** ou **=** entre les 2 angles de chaque figure.*

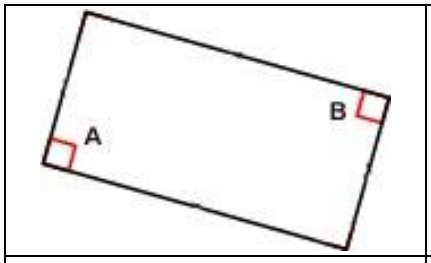	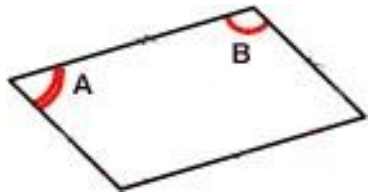	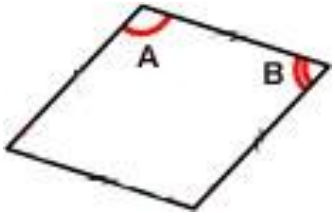
A = B	A < B	A > B

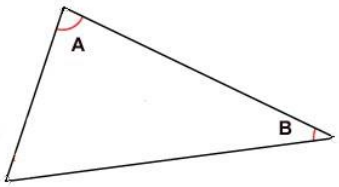	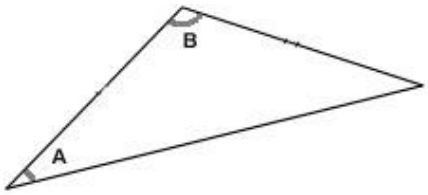
A > B	A < B

~~~~~~~~~~~~~~~~~~~~~~

Compétence 2 : Je sais vérifier qu'un angle est droit, obtus, aigu avec l'équerre.
*Consigne 2 : Dis pour chaque angle s'il est **aigu, obtus** ou **droit.***

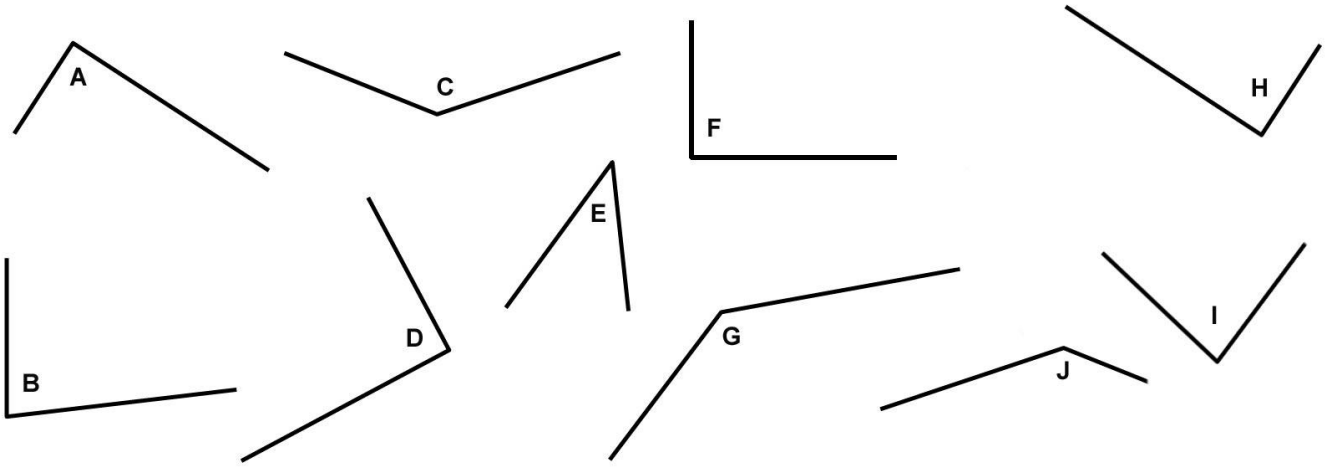

	A	B	C	D	E	F	G	H	I	J
aigu		X			X				X	
droit	X			X		X		X		
obtus			X				X			X
~~~~~~~~~~~~~~~~~~~~~~

↳ *Compétence 3 : <u>Je sais classer des angles.</u>*
↳ *Consigne 3 : <u>Range ces angles du plus obtus au plus aigu.</u>*

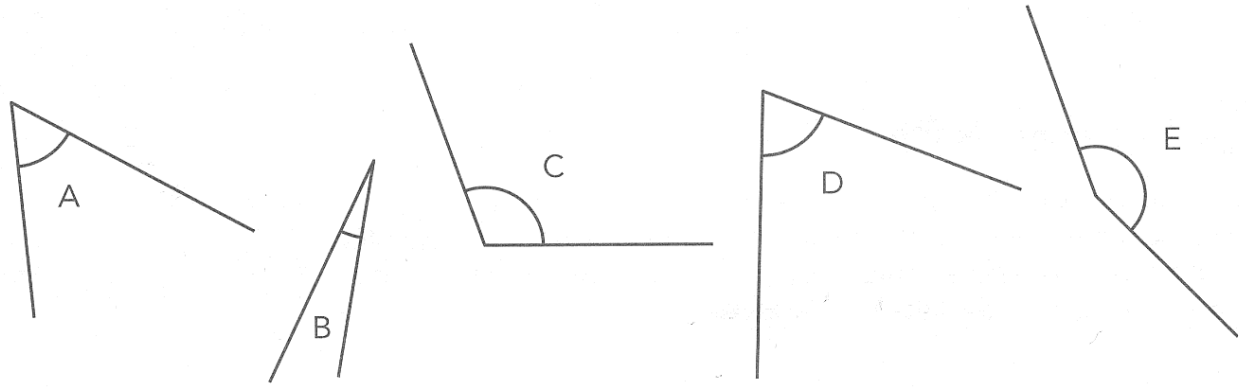

Ordre : **E – C – D – A - B**

mathématiques : grandeurs et mesures...mathématiques : grandeurs et mesures...mathématiques : grandeurs et mesures...mathématiques : grandeurs et mesures...mathématiques